第３学年　太陽のうごきと地面のようすをしらべよう

組　　番 氏名

１　（　　）の中にあてはまることばを、［　　］の中からえらんで書きましょう。

（１）　かげができているとき、かげのはんたいがわには、（　　）が見えます。

（２）　（　　）がうごくので、かげのむきは、時間がたつとかわります。

（３）　太陽は、（　　）のほうからのぼり、（　　）の高い空を通り（　　）のほうへしずみます。

（４）　方位じしんをつかいます。手のひらに水平において、ケースを回し、色がぬってあるはりの先と（　　）の文字をあわせます。

太陽	星	東	西	南	北

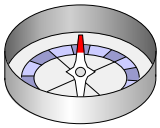

２　日なたと日かげの地面のようすをくらべます。**日なた**　か　**日かげ**　を（　　）の中に書きましょう。

（１）　明るいのはどちらですか。　（　　）

（２）　しめっているのはどちらですか。（　　）

（３）　つめたいのはどちらですか。　（　　）

（４）　かわいているのはどちらですか。（　　）

３　おんど計の目もりを読みます。

正しい読み方は、ア、イ、ウのうちどれでしょう。

（　　）

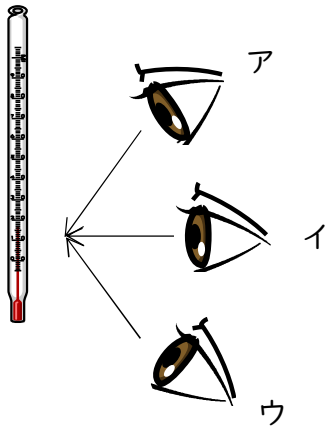

４　太陽のうごきをしらべるときに、ちゅういしなければならないことを書きましょう。

第３学年　太陽のうごきと地面のようすをしらべよう（解答）

組　　番 氏名

１　（　　）の中にあてはまることばを、［　　］の中からえらんで書きましょう。

（１）　かげができているとき、かげのはんたいがわには、（　太陽　）が見えます。

（２）　（　太陽　）がうごくので、かげのむきは、時間がたつとかわります。

（３）　太陽は、（　東　）のほうからのぼり、（　南　）の高い空を通り（　西　）のほうへしずみます。

（４）　方位じしんをつかいます。手のひらに水平において、ケースを回し、色がぬってあるはりの先と（　北　）の文字をあわせます。

［　太陽　星　東　西　南　北　］

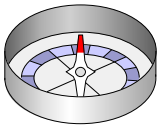

２　日なたと日かげの地面のようすをくらべます。**日なた**　か　**日かげ**　を（　　）の中に書きましょう。

（１）　明るいのはどちらですか。　（　日なた　）

（２）　しめっているのはどちらですか。（　日かげ　）

（３）　つめたいのはどちらですか。　（　日かげ　）

（４）　かわいているのはどちらですか。（　日なた　）

３　おんど計の目もりを読みます。
　正しい読み方は、ア、イ、ウのうちどれでしょう。
　（　イ　）

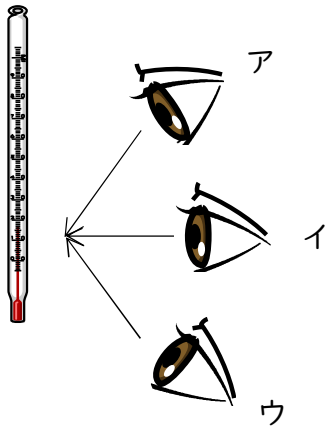

４　太陽のうごきをしらべるときに、ちゅういしなければならないことを書きましょう。

・太陽をちょくせつ見てはいけない。

・太陽を見るときには、しゃこうばんを使う。　など